A la découverte des jardins !

Je m'appelle la Rêveuse ! Il me faudrait de l'aide pour découvrir tous ces jardins !

Château de Chenonceau, Jardin de Catherine (Indre-et-Loire)

Exposition Architecture au jardin en Val de Loire

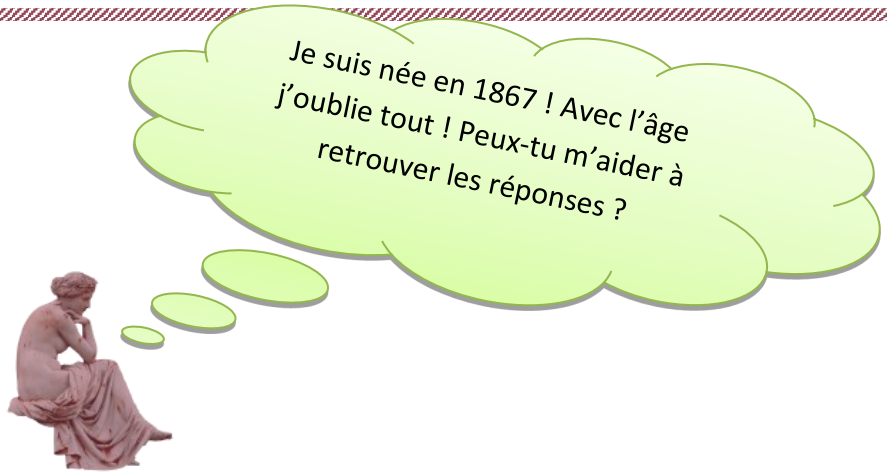

L'inventaire général du patrimoine sert à :

1- ☐ Recenser, étudier et faire connaitre le patrimoine
2- ☐ Aménager les châteaux
3- ☐ Créer des jardins

L'expression « Jardin de la France » désignait d'abord :

1- ☐ L'Anjou
2- ☐ La Touraine
3- ☐ Toute la France

Le jardin était clos et présentait un espace régulier durant :

1- ☐ La Renaissance
2- ☐ L'Antiquité
3- ☐ L'époque médiévale

Le modèle des jardins « à l'anglaise » apparaît :

1- ☐ Au XVIIIème siècle
2- ☐ Au XVIème siècle
3- ☐ Au XIXème siècle

Je suis creusée dans le sol et permet de conserver la glace toute l'année :

1- ☐ L'orangerie
2- ☐ La glacière
3- ☐ La serre

Attention ! Tout au long du livret des lettres vont s'afficher en vert ! Inscris-les ici afin de trouver le mot caché !

_ _ _ _ _ _ _ _ _ _ _ _

Ah la la ! La Rêveuse a encore tout mélangé ! Peux-tu nous aider à remettre les pièces à leur place ?

Le savais-tu ?
Il s'agit d'une fontaine florentine située dans les jardins du Château de Valmer, construit durant la Renaissance !

1

2

3

4

5

6

Mmm, devine à quoi je rêve !

Je suis très présente dans les jardins.
Je suis souple et fluide.
Je permets aux plantes de rester belles.
Je peux être en **C**ascade, en jet ou en fontaine.

Je suis ?

_____

Le jardin du château de Chenonceau était très sobre en 1955

Dessine sur la photo les éléments qui te donneraient envie de t'y promener !



La Rêveuse a encore fait des siennes ! Aide-nous à retrouver le mot qu'elle a caché !

Le savais-tu ?
Il s'agit d'un lieu où étaient conservés les arbres fruitiers, particulièrement les agrumes, pendant la saison froide !

_ _ _ _ _ _ _ _ _

Lettres A, G ou Z :

Lettres O, N ou V :

Lettres I, P ou M :

Lettres E, F ou X :

Lettre R :

Points communs

Différences

Parmi ces deux jardins lequel est « régulier » ? Lequel « paysager » ?

_____ _____

As-tu trouvé d'où vient la Rêveuse ? Si oui, note-le !

_____

A toi de jouer ! Montre à la Rêveuse d'où viennent ces éléments en les reliant à leur jardin !

1

3

A) Jardins des Prébendes d'Oé

2

B) Parc Mirabeau Tours

4



C) Château de Villandry

Aide la Rêveuse à retrouver son chemin !

A force d'être dans la lune, je me suis perdue dans un jardin !



Dans les jardins il y a aussi des bâtiments utiles ! Explique-le à la Rêveuse en associant chaque lettre de lieu avec le bon numéro !

A

B

C

D

◯ **1** : lieu où l'on conserve la neige, la glace, stockées en hiver, pour ensuite conserver la nourriture ou réaliser des sorbets.

◯ **2** : dispositif aménagé pour pomper l'eau grâce à la force du vent. Utile pour assurer l'arrosage par exemple !

◯ **3** : construction permettant de sécher les fruits afin de les conserver.

◯ **4** : construction de jardin destinée à accueillir des oiseaux, constituée d'une cage en bois ou en métal.

Merci pour ton aide ! Maintenant tu peux imaginer ton propre jardin et le dessiner !



Service Patrimoine et Inventaire
Région Centre-Val de Loire
9 rue Saint-Pierre-Lentin - CS 94117 - 45041 Orléans cedex
Tel: 02 38 70 25 06
inventaire@centrevaldeloire.fr

https://inventaire-patrimoine.centre-valdeloire.fr

La Rêverie, Jardin des Plantes, Orléans (Loiret)

Solutions :

P.2 : A1 / B2 / C3 / D1 / E2

ARCHITECTURE

P.3 : eau

P.4 : orangerie

P.5 : Jardin des Plantes, Orléans

P.6 : A 2,3 / B4 / C1

P.7 : A3 / B4 / C1 / D2

Rédaction : Solène Berthe.